1. Conhecendo as unidades

Observe as figuras musicais e responda com atenção.

LEMBRETE

UT = Unidade de Tempo: figura que vale um tempo.

UC = Unidade de Compasso: figura que completa o compasso.

Nos compassos com denominador 4, a UT é a semínima.

A) Escreva o nome de cada figura:



_____

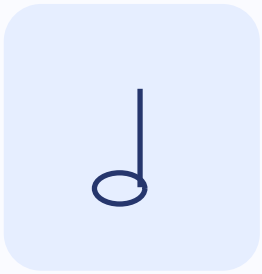

_____



_____



_____

B) Complete as frases:

A unidade de tempo nos compassos 2/4, 3/4 e 4/4 é a

_____.

A unidade de compasso representa _____

_____.

Nome do aluno: _____ Data: ____ / ____ / _____

2. Descubra a unidade de tempo

Observe cada fórmula de compasso e marque a resposta correta.

Circule a figura que representa 1 tempo em cada compasso.

Qual figura vale 1 tempo?

$\frac{2}{4}$



Mínima



Semínima



Semibreve

Qual figura vale 1 tempo?

$\frac{3}{4}$



Mínima



Semínima



Semibreve

Qual figura vale 1 tempo?

$\frac{4}{4}$



Mínima



Semínima



Semibreve

Nome do aluno: _____ Data: ____ / ____ / _____

3. Unidade de compasso

Ligue cada compasso à figura que preenche todos os seus tempos.

Dica: some os tempos! Em 3/4, use a mínima pontuada.

Mínima = 2 tempos | Mínima pontuada = 3 | Semibreve = 4

$\frac{2}{4}$	 **Semibreve**
$\frac{3}{4}$	 **Mínima**
$\frac{4}{4}$	 **Mínima pontuada**

Depois de ligar, escreva: UC do 3/4 = _____

Nome do aluno: _____ Data: ____ / ____ / _____

4. Complete os compassos

Cada semínima vale 1 tempo. Desenhe as figuras que faltam.

Desenhe semínimas nos espaços vazios para completar cada compasso. Cada quadrinho corresponde a 1 tempo.

2/4

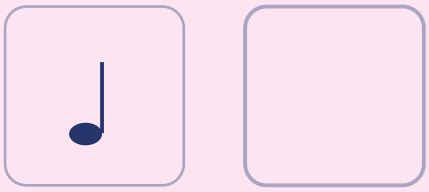

3/4



4/4

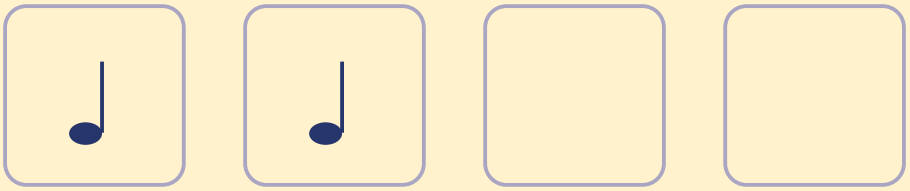

Nome do aluno: _____ Data: ____ / ____ / _____

5. Desafio musical!

Mostre o que você aprendeu sobre UT e UC.

A) Complete a tabela:

Compasso	UT	UC
$\frac{2}{4}$	_____	_____
$\frac{3}{4}$	_____	_____
$\frac{4}{4}$	_____	_____

B) Assinale V (verdadeiro) ou F (falso):

( ) No compasso 2/4 cabem duas semínimas.

( ) No compasso 3/4 a UC é a semibreve.

( ) No compasso 4/4 a UC é a semibreve.

Parabéns! Você concluiu os cinco desafios musicais!

Continue praticando: a música se aprende passo a passo.

Nome do aluno: _____ Data: ____ / ____ / _____