Colocação de Hastes e Colchetes

Se a nota estiver acima da 3ª linha da pauta, a haste é para baixo do lado esquerdo.
Se a nota estiver abaixo da 3ª linha da pauta, a haste é para cima do lado direito.
Os colchetes são colocados sempre do lado direito. Eles podem ser substituídos por barras quando há mais de uma figura junto.

Exercícios

1- Coloque um "X" nas figuras com hastes incorretas, analizadas individualmente:



2- Substituir os colchetes por barras:



QUESTIONÁRIO IV

Divisão Proporcional dos Valores

Valores Simples – **Divisão Binária**



1	2	4	8	16	32	64
	1	2	4	8	16	32
		1	2	4	8	16
			1	2	4	8
				1	2	4
					1	2

Valores Pontuados – Divisão Binária



1	2	4	8	16	32	64
	1	2	4	8	16	32
		1	2	4	8	16
			1	2	4	8
				1	2	4
					1	2

Valores Pontuados – Divisão Ternária



1	3	6	12	24	48	96
	𝅗𝅥.	3	6	12	24	48
		𝅗𝅥.	3	6	12	24
			𝅗𝅥.	3	6	12
				𝅗𝅥.	3	6
					𝅘𝅥𝅯.	3

Exercícios

1- Copiar no caderno o exercício do livro da pág 16

2- Responda:

A- Para uma semibreve_____mínimas

Para uma semicolcheia_____fusas

Para duas mínimas_____semínimas

Para quatro semínimas_____colcheia

Para três semínimas_____colcheias

Para duas semínimas_____colcheias

Para duas semicolcheias_____fusas

Para quatro semicolcheias_____fusas

Para uma fusa_____semifusas

B- Para 1



3- Complete: com números



4- Resolva as seguintes proporções:"divisão binária – valores simples".



5- Resolva as seguintes proporções: "Divisão binária – Valores pontuados"



6- Resolva as seguintes proporções: "Divisão ternária – valores compostos"



7- Para três colcheias, quantas fusas são precisas?



R São precisas 12

Para duas semibreves, quantas colcheias é preciso?

Para uma semínima, quantas semifusas é preciso?

Para uma mínima, quantas fusas é preciso?

Para três semicolcheias, quantas semifusas é preciso?

8- Agrupar cada compasso numa única figura:



55

55

9- Uma mínima corresponde a quantas fusas ?

( ) 8 ( ) 2 ( ) 16

10- Uma semínima corresponde a quantas semifusas ?

( ) 16 ( ) 8 ( ) 4

11- Uma mínima corresponde a quantas colcheias?

( ) 8 ( ) 4 ( ) 16

12- Uma colcheia corresponde a quantas semicolcheias ?

( ) 2 ( ) 8 ( ) 4

13- Uma semibreve corresponde a quantas semifusas ?

( ) 16 ( ) 32 ( )64

14- Quais as figuras que estão na ordem decrescente de valor?

( )  ( )  ( ) 

15- Quais são os números correspondentes da mínima, colcheia e semicolcheia respectivamente?

( ) 2, 8, 32 ( ) 2, 8, 16 ( ) 1, 8, 16

16- Marcar com um "X" as divisões que estão erradas:

a)  b) 

c)  d) 

e)  f) 

g)  h) 

i)  j) 

17- Coloque a equivalência entre as figuras:

1 semibreve = _____ colcheias

1 semibreve = _____ minimas

1 semibreve = _____ semicolcheias

1 semibreve = _____ semínimas

1 semibreve = _____ fusas

2 minimas = _____ colcheias

4 colcheias = _____ minimas

3 minimas = _____ semicolcheias

3 semibreves = _____ minimas

4 fusas = _____ semicolcheias

1 colcheia = _____ semicolcheias

3 semibreve = _____ semicolcheias

4 seminimas = _____ semibreve

8 colcheias = _____ mínimas

8 fusas = _____ semicolcheias

2 colcheias = _____ semicolcheias

2 semibreve = _____ semicolcheias

2 seminimas = _____ semibreve